uitwerkbijlage

Naam kandidaat _____ Kandidaatnummer _____

3

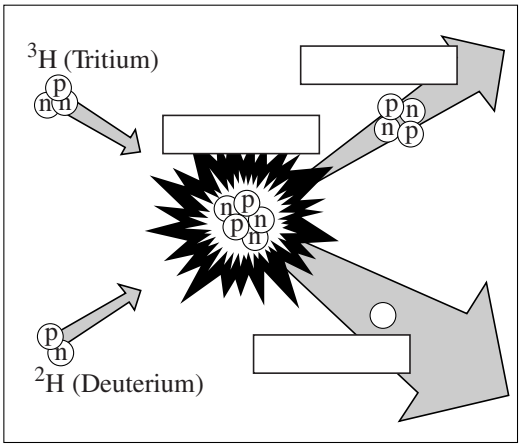

7

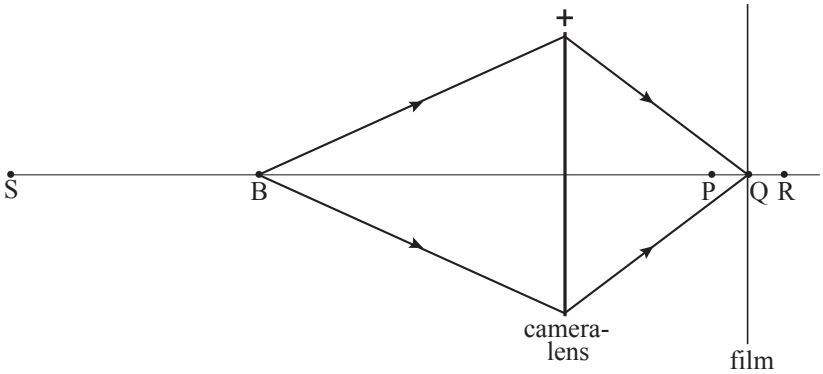

Het beeldpunt van S bevindt zich in ..... .

ruimte om uit te leggen waarom de schaduw van de bloem onscherp is:

.....

.....

.....

Beschikbaar gesteld door Stichting Studiebegeleiding Leiden (SSL).
Voor alle eindexamens, zie www.alleexamens.nl. Voor de perfecte voorbereiding op je eindexamen, zie www.sslleiden.nl.

8

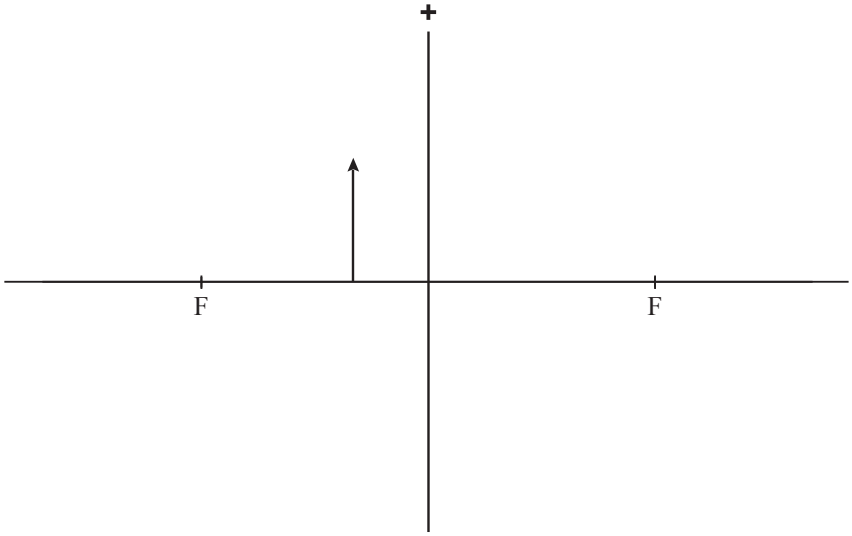

ruimte voor de controle of de vergroting in de constructie overeenstemt met die in figuur 3:

.....

.....

.....

.....

VERGEET NIET DEZE UITWERKBIJLAGE IN TE LEVEREN

Beschikbaar gesteld door Stichting Studiebegeleiding Leiden (SSL).
Voor alle eindexamens, zie www.alleexamens.nl. Voor de perfecte voorbereiding op je eindexamen, zie www.sslleiden.nl.